Das Einmaleins von 3 [5]

Einmaleins

Name: .....

Wie gut kannst du schon die 3er - Reihe? Vervollständige die Tabelle.

3		5	1			2		9	6	•
	21			24	30		12			3

Verbinde die Malaufgabe mit der Lösung.

10 · 3 =

3 · 3 =

1 · 3 =

4 · 3 =

2 · 3 =

7 · 3 =

6 · 3 =

8 · 3 =

5 · 3 =

9 · 3 =

6

30

15

3

12

24

9

21

27

18

5 · 3 =

1 · 3 =

9 · 3 =

7 · 3 =

2 · 3 =

3 · 3 =

8 · 3 =

10 · 3 =

4 · 3 =

6 · 3 =

Schreibe die Antworten der 3er - Reihe in die Raupe.

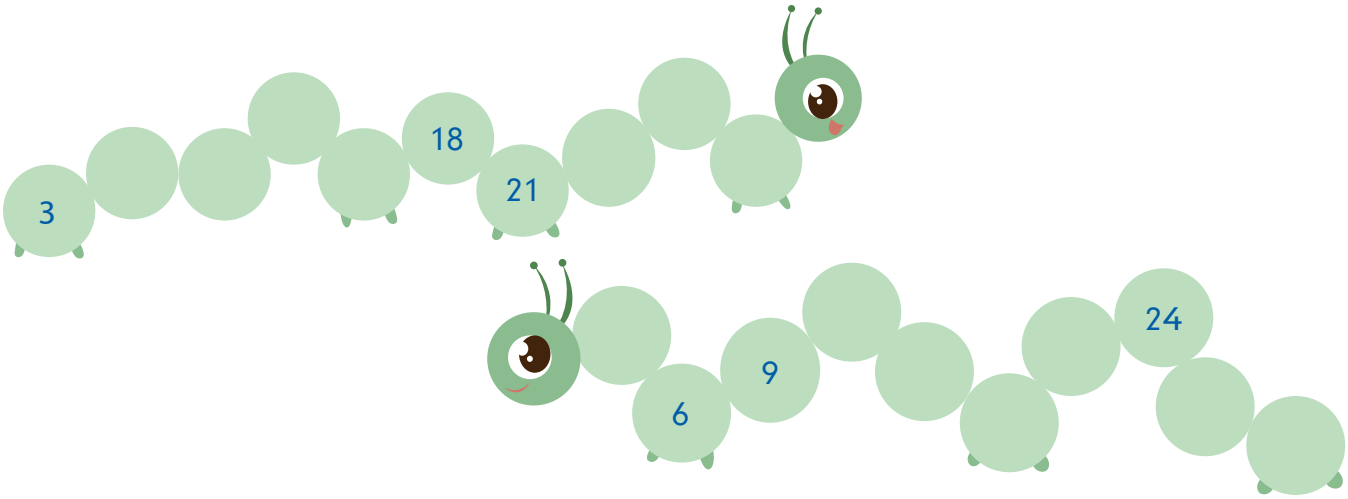

ANTWORTEN

Das Einmaleins von 3 [5]

Einmaleins

Wie gut kannst du schon die 3er - Reihe? Vervollständige die Tabelle.

3	7	5	1	8	10	2	4	9	6	·
9	21	15	3	24	30	6	12	27	18	3

Verbinde die Malaufgabe mit der Lösung.

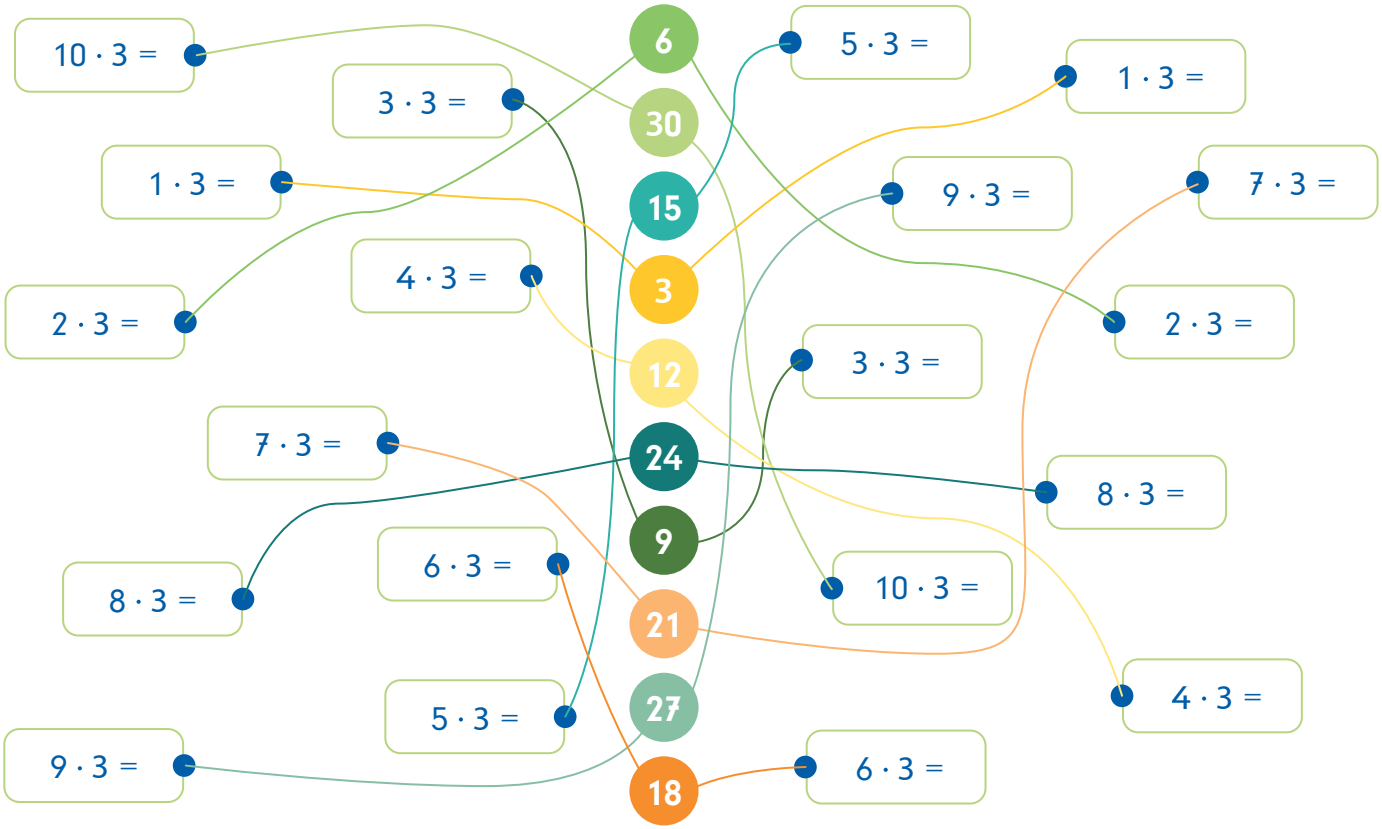
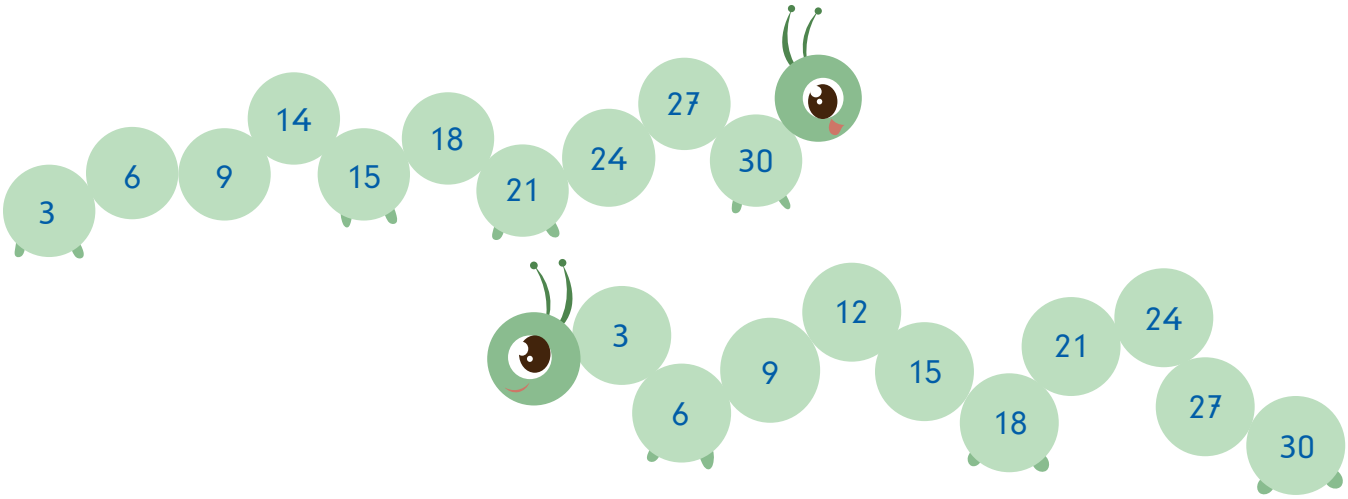
Schreibe die Antworten der 3er - Reihe in die Raupe.